浙江省

全心全意　品质为真

服务热线：4000-555-100

Contents 目录

阶段过关卷（一）[考查范围：中国古代史] 001
阶段过关卷（二）[考查范围：中国近现代史] 003
阶段过关卷（三）[考查范围：世界古代近代史] 005
阶段过关卷（四）[考查范围：世界现代史] 007
阶段过关卷（五）[考查范围：国家制度与社会治理] 009
阶段过关卷（六）[考查范围：经济与社会生活] 011
阶段过关卷（七）[考查范围：文化交流与传播和史学入门] 013
仿真模拟卷（一） 015
仿真模拟卷（二） 017
仿真模拟卷（三） 019
仿真模拟卷（四） 021
仿真模拟卷（五） 023
参考答案 025

绿色印刷产品

QUANPIN XUANKAO FUXI FANG'AN

全品选考复习方案

—历史—

主编：肖德好

阶段过关 + 仿真模拟

天津出版传媒集团
天津人民出版社

历史

班级：_____ 姓名：_____ 得分：_____

阶段过关卷（一）

时间：90 分钟　　分值：100 分

［考查范围：中国古代史］

一、选择题Ⅰ（本大题共 15 小题，每小题 2 分，共 30 分。每小题列出的四个备选项中只有一个是符合题目要求的，不选、多选、错选均不得分）

1. ［2023·浙江镇海中学模拟］下图是位于今天陕西省西安市临潼区的姜寨聚落遗址的复原图。以下有关它的说法，正确的是（　）

A. 被称为“华夏第一村”　　B. 是黄河流域原始农业发展的产物
C. 具备了国家的初始形态　　D. 房屋遵循严格的等级秩序进行排列

2. 考古发掘显示，二里头被外来者占领后，出现了一些外来样式的陶器，有的属于河北和河南两省交界处的下七垣文化，有的属于山东地区的岳石文化。之后，商人新建了两座城邑——郑州商城和偃师商城，但其陶器风格多样程度甚至超过被占领后的二里头古城。这些现象（　）
A. 反映了国家大一统局面　　B. 体现了战后的文化割裂
C. 印证了早期文明的特征　　D. 显示了早期商业的盛况

3. 有学者认为，由于中原气候温和、雨量适中、土壤松软、灌溉方便，中国是在“手无寸铁”的情况下进入文明社会的……氏族纽带依然被保留下来并发挥着新的功能。下列现象可用来印证这一观点的有（　）
①农耕中普遍运用青铜农具　②夏朝社会聚族而居　③王位世袭制代替禅让制　④西周开始分封诸侯
A. ①②　　B. ②③　　C. ②④　　D. ③④

4. ［2023·浙江北斗星盟联考］“凡天下祸篡怨恨，可使毋起者，以相爱生也。是以仁者誉之……今天下之君子，忠实欲天下之富而恶其贫，欲天下之治而恶其乱，当兼相爱、交相利。此圣王之法，天下之治道也，不可不务为也。”该思想家（　）
A. 主张统治者应该无为而治　　B. 提出“施仁政于民”的思想
C. 代表下层平民的利益和诉求　　D. 主张以法为治理国家的工具

5. ［2023·浙江金丽衢十二校联考］秦朝是中国历史上第一个统一的中央集权国家。在统治期间，秦始皇采取了许多先进的决策，开创了许多具体的制度，这些决策和制度对中国的历史和文化产生了深远影响。下列项中，由秦朝开创的具体制度是（　）
A. 郡县制度　　B. 官僚制度　　C. 皇帝制度　　D. 刺史制度

6. 下表为西汉太学中博士弟子人数变化统计表。这从一个侧面反映了汉代（　）

帝王	汉武帝	汉昭帝	汉宣帝	汉元帝	汉成帝	汉平帝
博士弟子	50 人	100 人	200 人	1000 人	3000 人	10 800 人

A. 儒学的社会地位在不断上升　　B. 西汉商品经济持续发展
C. 官位被垄断的情形彻底改变　　D. 学术思想平等竞争的局面结束

7. ［2023·浙江义乌模拟］汉朝初年，最高执政集团多由创业功臣构成，学者称之为“功臣政治”。汉武帝时代，大体完成了由“功臣政治”向“贤臣政治”的转变。下列选项中符合这一转变理念的是（　）
①“九品访人，唯问中正”　②“举贤良方正，能直言极谏者”　③“官无常贵，民无终贱”　④“兴太学，置明师，养天下之士”
A. ①②③　　B. ②③④　　C. ①②④　　D. ①③④

8. 魏晋时期，玄学家把老庄“无为”“自然”思想发扬光大，如阮籍、嵇康等认为，无君无臣的“自然”状态才是最美好的。陶渊明的“桃花源”之梦，就是由一群“避秦”者所建成的一个“无君”的美丽家园。据此可知，当时（　）
A. 集权体制弱化促进了思想活跃　　B. 文学创作汇聚百家之长
C. 战乱割据阻碍了传统文化交流　　D. 门阀士族垄断文化资源

9. 隋文帝于开皇五年实行输籍定样政策，规定每年正月五日，县令出查，令百姓五党或三党为一团，根据标准定户等上下，重新规定应纳税额，“定其名，轻其数，使人知为浮客，被强家收大半之赋，为编氓，奉公上，蒙轻减之征”，从而使得大量农民成为国家的编户齐民。这一举措的实行（　）
①确保个体小农经济的发展　②有利于国家财政收入增加　③开创户籍三年一造的惯例　④与“大索貌阅”形成互动
A. ①②　　B. ②④　　C. ②③　　D. ③④

10. ［2023·浙江嘉兴二模］中晚唐进士及第后，要参加各种宴集活动，这种公开的宴集活动便成了公卿择及第进士为婿的最佳场所。至北宋中期，进士卖婚现象日盛，以致进士“娶妻论财，全乖礼义”。这反映了（　）
A. 八股取士难以选拔人才　　B. 平民进入政坛给政治增添了活力
C. 门第观念依然十分流行　　D. 科举制对婚姻择偶观念影响深刻

11. ［2023·浙江A9协作体联考］宋代被诸多史学家认为是中国古代历史上社会经济最为繁荣的时代。下列选项中，对宋代社会经济状况表述正确的是（　）
A. 信贷业务由存贷款发展到汇兑，出现了“飞钱”
B. 海外贸易非常繁荣，外贸税收成为国库的重要财源
C. 商品经济发展，集镇进一步发展并出现专业分工
D. 全国范围的商业贸易网络形成，晋商等商帮兴盛

12. “盖岭北、辽阳与甘肃、四川、云南、湖广之边，唐所谓羁縻之州，往往在是，今皆赋役之，比于内地。”上述史料最有可能出自（　）
A.《史记》　　B.《唐律疏议》
C.《元史·地理志》　　D.《大明律》

13. ［2023·浙江湖州二模］我国古代某思想家提出“心外无物，心外无理”“知行合一”。该思想家（　）
A. 提出“宇宙便是吾心，吾心便是宇宙”　　B. 构建一套以“致良知”为核心的理论
C. 撰写的《小学》成为幼童的行为规范　　D. 制定的《白鹿洞书院教条》影响后世

14. 康熙帝在位 61 年，是中国历史上在位时间最长的皇帝，期间，平定吴三桂、尚可喜、耿精忠三藩之乱，设台湾府并规定其隶属福建省，击败分裂势力准噶尔部，在多伦与内外蒙古首领会盟，册封西藏“五世班禅”，崇尚儒家文化，开科取士，延揽汉族文士。下列选项对此评价正确的是（　）
A. 进一步加强了君主专制　　B. 有力地维护了国家主权
C. 促进经济文化发展繁荣　　D. 推动民族国家日趋稳固

15. ［2024·浙江名校协作体联考］自古以来，我国与周边民族和国外国家保持着密切联系，各朝各代都有管理边疆民族和域外宾客的机构。图中①②③④处填写正确的是（　）

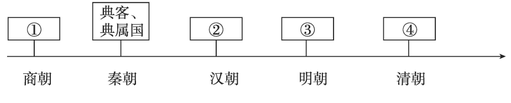

A. ①宾、②鸿胪寺、③大鸿胪、④宣政院　　B. ①小行人、②大鸿胪、③礼部、④理藩院
C. ①小行人、②鸿胪寺、③宣政院、④礼部　　D. ①宾、②大鸿胪、③礼部、④理藩院

二、选择题Ⅱ（本大题共 6 小题，每小题 3 分，共 18 分。每小题列出的四个备选项中只有一个是符合题目要求的，不选、多选、错选均不得分）

16. ［2023·浙江宁波二模］《史记》是西汉史学的代表性成就。有史家将其记述人物籍贯的内容摘录如下：“陆贾者，楚人也”“彭越者，昌邑人也”（张守节《正义》：“汉武更山阳为昌邑国”）“司马相如者，蜀郡成都人也”。据此材料，无法得出的结论是（　）
A. 以郡为籍贯成为当时惯例　　B. 西汉一度出现以封国为籍贯的现象
C. 西汉中期，战国遗风犹存　　D. 反映了西汉区域观念的变化

17. 下图是唐代岭南道广州怀集百姓所纳庸调在上缴朝廷时由地方官府折纳的银饼，出土于陕西西安何家村。该银饼正面刻有铭文 5 行，内容为：“怀集县开十庸调银拾两，专当官令王文乐、典陈友、匠高童。”下列项中，对上述材料解读正确的是（　）

①唐代中央决策和行政体系日臻完备　②唐代南方经济已经有相当程度的发展　③唐代庸调的征收已经广泛折纳银饼　④唐代对赋役征发的管理比较严格规范
A. ①②　　B. ②③　　C. ②④　　D. ③④

18. ［2024·浙江名校新高考研究联盟联考］《文献通考·钱币考》曰：“初蜀人以铁钱重，私为券，谓之交子，以便贸易。富人十六户主之。其后富人稍衰，不能偿所负，争讼数起。寇瑊尝守蜀，乞禁交子。薛田为转运使，议废交子则贸易不便。请官为置务，禁民私造。诏从其请。置交子务于益州（今四川成都）。”材料表明，宋代交子（　）
①最初由私人发行，具有民间交易凭证的功能　②为保证地方赋税如数上缴，朝廷置相应机构　③后由国家发行，有利于克服私人发行的弊端　④顺应时代要求，促进四川地区商品经济发展
A. ①②③　　B. ①②④　　C. ①③④　　D. ②③④

19. 秘书监是中国古代中央政府设立的用以收藏、管理和编辑图书典籍的机构。元代秘书监作为中央图籍典藏和文化管理机构，以典藏职能为核心，逐渐形成编修史志、文化监管、司天、育才等其他外延职能，是元代民族文化交融和历史文化发展的集中体现。以下关于元代秘书监的结论由材料无法得出的是（　）
A. 藏书规模元代最盛　　B. 它是元代民族交融在文化上的反映
C. 典藏是其核心职能　　D. 体现了政府对思想文化的控制比较严格

20. 唐代以后，学校与科举相联系，学校议政给封建政治带来勃勃生机。明末，由于东林书院的斗争，学校在社会上，在政治与道义领域，表现出巨大的力量并获得崇高的声望，黄宗羲也将改革政治的全部希望寄托于学校。由此可知，黄宗羲的学校思想（　）
A. 体现出反封建的色彩　　B. 具有朴素唯物主义特点
C. 凸显自我表现的个性　　D. 是对历史和现实的反映

21. ［2023·浙江金华模拟］我国古代历史叙述多采用寓褒贬于记事的“春秋笔法”，如春秋时期，晋国国君晋灵公荒淫无度，使民不聊生，最终为赵盾族弟赵穿所杀。太史董狐记载道：“赵盾弑其君。”赵盾感到冤枉，辩解道：“弑者，赵穿，我无罪。”董狐说：“子为正卿，亡不越境，反不讨贼，非子而谁？”孔子赞其为“董狐直笔”。这说明（　）
A. 史官董狐坚守历史书写的客观性　　B. 官修史书所记载的史事不足为信
C. 对历史的记录应采用“春秋笔法”　　D. 历史真相与历史价值观不宜混淆

三、非选择题(本大题共4小题,其中第22题14分,第23题6分,第24题20分,第25题12分,共52分)

22. (14分)国家既是维护阶级统治的暴力机构,也具有社会职能,社会治理正是体现国家社会职能的最重要方面。阅读材料,完成下列要求。

材料一 租庸调法,以人丁为本。开元后久不为版籍,法度废弊,丁口转死,田亩换易,贫富升降,悉非向时。德宗时,杨炎为两税法,夏输无过六月,秋输无过十一月,置两税使以总之。户无主客,以现居为簿,人无丁中,以贫富为差。租庸杂徭悉省,而丁额不废。史称天下便之,人不土断而地著,赋不加敛而增入,版籍不造而得其虚实云。

——摘编自吕思勉《中国制度史》

材料二 从秦朝到清朝的王朝兴替过程中,有效的维护统治的方案主要在于建立一套行政组织……其一,通过保障其臣民基本的物质需求,避免臣民因难以忍受的生活而"铤而走险";其二,通过反复向臣民灌输经过严格筛选的道德教条(大部分是从儒家学说中筛选出来的),使臣民接受或认同现存的统治秩序;其三,通过不断监视臣民,从而查出"奸民"并及时采取措施。这套政治统治体系通过在战略要地驻军而得到加强,使各个王朝有可能在相当时期里有效地统治一个广阔的疆域。

——摘编自萧公权《中国乡村》

(1)根据材料一,结合所学,指出租庸调制的经济基础,说明纳庸代役的影响,并分析两税法体现出的赋税征收标准的变化趋势。(6分)

(2)明清时期对民众的监督和控制比前代更加严密。根据材料二,结合所学,说明明清时期乡约制度与前代相比发生的变化,概述清代中后期的保甲制体现的中国古代基层治理的发展趋势。(8分)

23. (6分)[2024·浙江县域教研联盟模拟] 阅读材料,完成下列要求。

材料 关于宋代的发展情况,学者们有不同的观点。日本学者宫崎市定在《东洋近代史》中说:"中国宋代实现了社会经济的跃进、都市的发达、知识的普及,与欧洲文艺复兴现象比较,应该理解为并行和等值的发展,因而宋代是十足的'东方的文艺复兴时代'。"而另有一些国外学者认为由于种种不利因素的影响,这一发展势头未能继续下去,他们认为宋代处于我国封建社会的停滞时期,没有制度性的突破。

——据[美]罗兹·墨菲《东亚史》、马克垚《世界文明史》等整理

评析材料中关于宋代的观点。(要求:围绕材料中的一种或两种观点展开评析,观点明确,史论结合。)(6分)

24. (20分)中国运河历史悠久,视运河为命脉。阅读材料,回答问题。

材料一 中国人很早就学会了开凿运河,以沟通原来不连通的水道。早在春秋战国时代,各国出于经济或军事的目的,已开凿地方性运河。

开建时间		名称	沟通水系	备注
春秋	楚庄王时期	江汉运河	连接长江和汉水	有记载以来中国最早的运河工程
	吴王夫差时期	邗沟	连接长江与淮河	中国大运河最早开凿的河道
战国	魏惠王时期	鸿沟	将黄、淮及其支流和其他独立水系联系	形成黄淮平原上的水道网,即鸿沟系统

——摘编自袁行霈《中华文明史》

材料二 秦始皇统一六国后,把目光投向岭南地区。因为秦朝的疆域以南,还有很多盛产翡翠、犀角的宝地,并没有被纳入版图。公元前219年,秦始皇命令主帅屠雎率领50万大军,兵分五路出征岭南地区,对南方百越部落进行征服战争,史称"秦戍五岭"。但是,素来战无不胜的秦军,这场仗打得十分艰难,数十万秦军一时进退两难。公元前218年,史禄开始修建一条人工运河,至公元前214年,终于凿渠成功。

——计亚男《来自"中国秦汉史研究会第十六届国际学术研讨会"的报道》

材料三 大业元年(605年)三月,杨广征发一百余万人开通济渠,以沟通黄河与淮河,同时又征发淮南十余万百姓开挖邗沟,以沟通长江与淮河。大业四年(608年),杨广又令一百余万男女百姓开凿永济渠。大业六年(610年),隋炀帝又下令开挖江南河,沟通长江与钱塘江之间的水上交通。仅仅六年时间,由永济渠、通济渠、邗沟、江南河组成的大运河就全部完工。隋朝大运河以洛阳为中心,全长两千多千米,连接了黄河流域和长江流域,为南北经济文化交流提供了便利条件。

——摘编自卜宪群《中国通史》

(1)根据材料一,推断中国运河的主要沟通方向。从经济和军事的角度,分析春秋战国时期开凿运河的主要目的。(6分)

(2)写出材料二中人工运河的名称及其连接的两大水系。根据材料二,概括这条人工运河开凿成功对"秦戍五岭"所起到的作用。(6分)

(3)结合材料三和所学,运用唯物史观,评价隋朝大运河。(8分)

25. (12分)阅读材料,回答问题。

材料 张骞和他的部属,是有史以来第一批踏入西域乃至更远地区的中原王朝官方使节……由此形成的丝绸之路,架起了东西方交流的桥梁,这是一条沟通东西方的政治之路、经贸之路、文化之路。汉唐之间的"丝绸之路"又可分为海上丝绸之路、草原丝绸之路和沙漠丝绸之路。在15世纪人类进入大航海时代之前的千余年间,穿越西域沙漠的丝绸之路,始终是东西方文化交流最为重要的通道。

——摘编自卜宪群《中国通史·秦汉魏晋南北朝》

根据材料并结合所学中国古代史知识,自拟一个论题,并予以阐述。(要求:论题明确,史论结合,逻辑清晰。)(12分)

历史

班级：_____ 姓名：_____ 得分：_____

仿真模拟卷（一）

时间：90 分钟　　分值：100 分

一、选择题Ⅰ（本大题共 15 小题，每小题 2 分，共 30 分。每小题列出的四个备选项中只有一个是符合题目要求的，不选、多选、错选均不得分）

1. ［2024·浙江名校协作体联考］兴隆洼遗址，发现于内蒙古赤峰敖汉旗，是 8000 多年前的原始村落遗址。这里发掘出 170 余座房址，最大的房址面积达 140 平方米。下列表述正确的是（　）

①遗址属于北方辽河红山文化　②该遗址呈现半穴居居住形式　③遗址处于父系氏族社会时期　④该遗址被誉为“华夏第一村”

A. ①②　　B. ①③　　C. ②④　　D. ③④

2. ［2024·浙江衢州模拟］在周代贵族的生活中，车马是重要的交通工具。王侯重臣为彰显身份，伞盖总是寸步不离左右。周人认为，车厢底部的方木框象征着大地，圆形的伞盖代表着上天。两个车轮是日月的样子，28 根伞骨是天上的星宿的数量。上述材料反映了周代（　）

①天人合一的审美观念　②贵族阶层的礼制规定　③宗法纽带的世袭绵延　④兼并战争的持续不断

A. ①②　　B. ①③　　C. ②③　　D. ③④

3. ［2023·浙江杭州二模］吴起治楚，规定“封君之子孙三世而收爵禄”“废公族疏远者”；商鞅治秦，规定“宗室非有军功论，不得为属籍。明尊卑爵秩等级，各以差次……”上述举措有利于（　）

A. 打击贵族世袭特权　　B. 形成天下一家的文化认同

C. 促进庄园经济发展　　D. 奠定秦朝统一霸业的基础

4. ［2023·浙江湖州二模］他“因族人大量死于伤寒，立志从医，博采众方，提出辨证施治的原则”。“进则救世，退则救民，不能为良相，亦当为良医”是他行医的信条。“他”的代表作（　）

A. 是重要的中医临床学著作　　B. 奠定了中医理论的基础

C. 建立在经络学说的基础上　　D. 被誉为“东方药学巨典”

5. ［2024·浙江衢州模拟］据统计，宋代藏书家人数较前代大增，藏书数量最多者的藏书超过十万卷。与此现象相关的主要因素是（　）

A. 文学作品大量涌现　B. 造纸术的发明推广　C. 对外文化交流频繁　D. 印刷术的发展进步

6. ［2023·浙江杭州模拟］官员的选拔与管理是国家制度的重要组成部分，也是社会治理的必要前提。以下材料反映了中国古代不同时期对官员的监察情况，按朝代顺序排列正确的是（　）

①谏官“往往分行御史之职”　②“部刺史奉使典州，督察郡国，吏民安宁”　③“民事、钱谷、官吏奸弊，一切委之（肃政廉访司）”　④“章奏之下，又经六科，六科可封驳，纠正违失”

A. ①②④③　　B. ②①③④　　C. ③①④②　　D. ④③②①

7. 据统计，咸丰十年(1860 年)以后，太平军治下江南乡村的民变共计 70 起，其中由士阶层和边缘层(无功名之儒生文人)作为事件主要领导者的民变比重最高，占民变总数的 24.29%，远远高于游民(8.57%)、农民(8.57%)、商贩(2.86%)等阶层领导的民变。对此合理的解释是（　）

A. 士阶层是推动社会进步的重要力量　　B. 太平天国冲击了传统社会秩序

C. 太平天国运动缺乏广泛的群众基础　　D. 江南地区民众受到新思想影响

8. ［2023·浙江镇海中学模拟］国民政府在 1927 年宣布实行关税自主，下表为与之相关的内容，对其解读正确的有（　）

	1929 年	1930 年	1931 年	1933 年	1936 年
进口税最高税率	27.5%	50%	—	80%	—

（续表）

	1929 年	1930 年	1931 年	1933 年	1936 年
关税收入(单位:亿元)	2.45	2.92	3.88	—	6.36
中国的贸易逆差	—	—	1.78 亿美元	—	0.7 亿美元

①国民政府完全可以自定关税税率　②关税自主有利于改善国民政府的财政状况　③关税自主政策有利于民族经济的发展　④中国贸易逆差的减少得益于有利的国际环境

A. ①②　　B. ②③

C. ②④　　D. ③④

9. ［2024·浙江名校协作体联考］新中国成立后，坚持独立自主的和平外交方针，广泛发展同世界各国的友好关系。下图是与中国建交国家数量增长情况表，以下表述不正确的是（　）

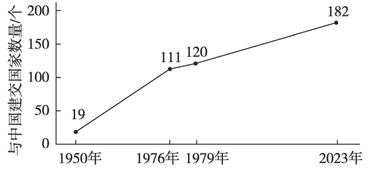

A. 中国与苏联签订了《中苏友好同盟互助条约》

B. 中法建交实现了中国同西方大国关系的突破

C. 中美关系开始走向正常化，推动中国迎来新建交高潮

D. 中国提出“真实亲诚”理念，深化了与东盟各国关系

10. ［2023·浙江临海联考］2022 年年底，基本医疗保险参保人数为 134 570 万人，参保覆盖面稳定在 95%以上，农村低收入人口和脱贫人口参保率稳定在 99%以上。这说明（　）

A. 爱国卫生运动不断深入　　B. 新中国第一部社会保障法规的颁布

C. 社会保障体系日益健全　　D. 基本医疗卫生体系的建立

11. ［2023·浙江温州知临中学一模］到公元 2 世纪，罗马帝国境内建立的大道已有 372 条，形成“条条大路通罗马”的景象；罗马帝国也留下了众多宏大壮观的建筑遗产，其中，壮丽的万神殿、宏伟的大竞技场是典型代表。据此可知当时罗马帝国（　）

①对外扩张促进了交通的发展　②基督教信仰是社会普遍的文化符号　③对外联系加强促进经济贸易繁荣　④交通发达，直接实现与中国汉朝的联系

A. ①②　　B. ①③　　C. ②③　　D. ③④

12. ［2023·浙江绍兴二模］会议程序的安排使一切重大问题都须由四大胜利强国来决定。会议代表最为关心的是在大陆能够恢复均势，即恢复“欧洲的自由”，并建立持久的和平。在这方面他们是成功的。他们恢复了欧洲国家体系，即许多主权独立国家生存于其中而不必担心被征服或受统治的体系。在这次会议基础上构建的国际秩序被称为（　）

A. 维也纳体系　　B. 威斯特伐利亚体系

C. 雅尔塔体系　　D. 凡尔赛—华盛顿体系

13. ［2024·浙江温州模拟］空想社会主义者傅立叶一直幻想用和平的方式改造资本主义社会，希望得到有钱人和社会名流的支持。他在报纸上刊登广告，说他每天中午 12 时在家接见答应出资建设和谐制度的人。这表明傅立叶（　）

A. 揭露和批判当时制度的弊端　　B. 希冀建立和谐的理想社会

C. 认真总结了工人运动的经验　　D. 主张国家对经济进行干预

14. ［2023·浙江四校联考］19 世纪 30 年代，英国某协会向议会提交了一份政治纲领，其中六项要求是：实行男子普选权；每年举行一次议会选举；实行平均的选区，每个选区选民数相等；议员领取薪金；取消议员的财产资格限制；实行无记名投票。这份政治纲领（　）

A. 揭示了资本主义社会的财产不平等　　B. 在科学社会主义理论指导下形成

C. 体现了工业革命带来新兴力量的变化　　D. 使英国基本实现成年男性的普选权

15. ［2024·浙江七彩阳光联盟联考］下图反映了 21 世纪全球经济发展状况，对图中信息的解读正确的是（　）

A. “故障”是指布雷顿森林体系的瓦解

B. “经济全球化”已不再是时代的潮流

C. “国际机构”有 IMF、WB、WTO 等

D. “经济全球化”的阻力来自发达国家

二、选择题Ⅱ（本大题共 6 小题，每小题 3 分，共 18 分。每小题列出的四个备选项中只有一个是符合题目要求的，不选、多选、错选均不得分）

16. ［2023·浙江临海联考］读下图，都江堰利用玉垒山和岷江的地势特点，用鱼嘴、飞沙堰和宝瓶口等调节内江和外江水量，从而实现“水旱从人”。2000 年，该工程被列入“世界遗产名录”。据此可知都江堰水利工程（　）

①沟通了长江与珠江水系　②蕴含“天人合一”观念　③有利于农业生产的发展　④具有“突出的普遍价值”

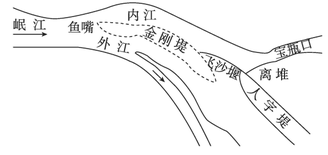

都江堰工程示意图

A. ①②③

B. ①②④

C. ①③④

D. ②③④

17. 《红楼梦》第六回有这么一个情节：刘姥姥只听见咯当咯当的响声，大有似乎打箩柜筛面的一般，不免东瞧西望的。忽见堂屋中柱子上挂着一个匣子，底下又坠着一个秤砣般一物，却不住地乱幌(晃)。正呆时，只听得当的一声，又若金钟铜磬一般，不防倒唬的一展眼。接着又是一连八九下。作为个案，这可以反映（　）

A. 贾府由盛而衰的过程　　B. 现代时间观念的形成

C. 统治者拒绝扩大对外交往　　D. 创作具有明清的时代气息

18. ［2024·浙江七彩阳光联盟联考］亚里士多德记载当时希腊普遍流行的政体“正如人们谈论风向时，只有北风和南风，其他都是二者的变体，政体亦是只有两类，即民主制和寡头制”；在不同城邦之间，民主制和寡头制的深刻矛盾导致雅典和斯巴达斗争不止，并最终导致伯罗奔尼撒战争的爆发。对此解读正确的是（　）

A. 两种政体都建立在对奴隶专政的基础上　　B. 斯巴达寡头政治下公民丧失参政的权利

C. 雅典鼠疫决定了伯罗奔尼撒战争的结果　　D. 伯罗奔尼撒战争的本质是希腊政体之争

19. ［2023·浙江嘉兴二模］英国皇家农业学会主席皮由兹先生曾说：“由于采用新机器，(相对的)经营费用几乎减少了一半。另一方面，从土地上得到的实际收益也迅速增加了。农业技术革新还节省了大量的人力。这样农业技术革新所造成的农村剩余劳动力，就成为工业的劳动后备军。”上述材料的主旨是（　）

A. 工业革命推动了农业技术革新　　B. 科学技术对社会发展作用巨大

C. 农业技术革新得益于并反哺工业革命　　D. 圈地运动为开展工业革命提供劳动力

20. 下表所示为英、法、美、德四国在世界工业生产中所占的相对份额(单位:%)。对其分析正确的是（　）

年代 国家	1880 年	1900 年	1913 年	1928 年	1938 年
①	22.9	18.5	13.6	9.9	10.7
②	14.7	23.6	32.0	39.3	31.4
③	8.5	13.2	14.8	11.6	12.7
④	7.8	6.8	6.1	6.0	4.4

A. ①国在 19 世纪末 20 世纪初贸易垄断地位被打破　　B. ②国人在 19 世纪 80 年代发明了汽车

C. 华工成为③国中央太平洋铁路工地的主要劳动力　　D. ④国在 19 世纪成为启蒙运动的中心

21. ［2024·浙江强基联盟联考］关于老子和道家，教材的叙述是老子为“春秋后期楚国人”，他是“道家学派的创始人”，老子的观点主要“见于《老子》一书”。但有学者说，“关于老子其人，记载歧异……其生活年代可能与孔子同时，但现在所见托其名的《老子》一书则写成于战国时期，有关思想观点的形成要晚于儒、墨学说”，由此认

为,道家思想真正产生于战国时期。对此认识正确的是 ( )

A. 对于有争论的历史观点,需要考古学的进展来证实与证伪

B. 教科书的权威性大于学者的观点,故应以教科书的观点为准

C. 历史的基本事实通过借助多种研究路径,有可能逐步澄清

D. 历史学应像其他社会科学一样提倡百家争鸣,避免价值判断

三、非选择题(本大题共4小题,其中第22题20分,第23题6分,第24题14分,第25题12分,共52分)

22. (20分)[2023·浙江精诚联盟三模] 自古以来改革就是完善国家治理的重要手段,恰当的改革可以为国家发展提供新的活力。阅读材料,完成下列要求。

材料一 王安石说:"募兵未可全罢,民兵可渐复……今中国募禁军往戍多死,此害于仁政。陛下诚能罢军职,以所得官十二三,鼓舞百姓豪杰,使趋为民兵,则事亦成……今所以为保甲,为其足以除盗,然非特除盗也,固可见习其为兵。……与募兵相参,则可以消募兵骄志,省养兵财赋,事渐可以复古。"

——杨永亮《近世视域下的宋代社会变革研究》

材料二 北洋政府时期,中国近代人事管理制度改革的进程并未因袁世凯或其他军阀的专制独裁而中断,相反却被作为强化其政治统治的一种手段而得以实施。从1913年开始,北洋政府陆续颁发了许多有关建立文官制度的法律法令,如《文官考试法草案》《文官任用法施行法草案》《文官甄别法草案》《文官惩戒法草案》《文官保障法草案》等等。这些法案明确"官吏是社会职业之一种。官吏与国家的关系是一种契约关系……一切契约之成立,必须得当事人双方之同意。其变更、消灭,亦自非双方同意及有法定条件不可。官吏契约也应遵守这一规范"。

——摘编自林新奇《中国人事管理史》

材料三 中共十八届三中全会也是划时代的,开启了全面深化改革、系统整体设计推进改革的新时代,开创了我国改革开放的新局面。中国特色社会主义进入新时代,我国社会主要矛盾进一步发展变化,这就决定着,深化社会治理制度改革,推进社会全面创新进步,必须始终坚持人民主体地位,充分调动人民群众参与社会治理和社会建设的主动性、积极性,为更好满足人民对美好生活的需要、促进社会全面进步和人的全面发展提供更加充实、更有保障、更可持续的有效制度安排。

——包心鉴《深入把握全面深化改革总目标》

(1)根据材料一,指出王安石的变法主张。结合所学知识,概括王安石提出上述变法主张的意图。(6分)

(2)根据材料二,结合所学知识,说明《文官考试法草案》颁布的历史条件,并简析北洋政府时期官员选拔法案制定的积极意义。(8分)

(3)根据材料三,结合所学,指出我国全面深化改革总目标及中国特色社会主义进入新时代的标志。(6分)

23. (6分)历史著作的书名往往可以勾勒出历史的发展面貌和基本线索。阅读材料,完成下列要求。

材料 以下是方志远著《国史通鉴》丛书部分书名,后续著作还有隋唐五代卷、宋辽金元卷。

《天下大势:远古先秦卷》
《山河万里:秦汉三国卷》
《乡关何处:两晋南北朝卷》
……

请结合所学知识,选择一个历史时期,给后续著作拟定一个书名,并说明理由。(要求:史论结合,阐述充分,逻辑清晰。)(6分)

24. (14分)[2024·浙江台州名校联盟联考] 阅读材料,完成下列要求。

材料一

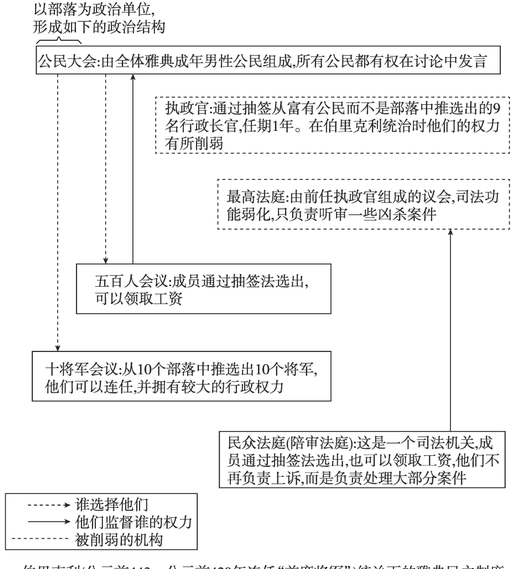

伯里克利(公元前443—公元前429年连任"首席将军")统治下的雅典民主制度

——摘编自[美]丹尼斯·谢尔曼、乔伊斯·索尔兹伯里《全球视野下的西方文明史》

材料二 在英国革命中,王党阵营中几乎全是国教徒,议会阵营中几乎全是清教徒,所有支持国王的人都信奉国教,所有反对国王的人都不信奉国教……从社会成分看,革命阵营和反革命阵营是没有区别的,所以无论哪一派力量在战争中获胜,对社会来说都不会造成变化,原来那个社会都会被保存……英国通过一次不流血的宫廷政变即光荣革命完成了政治制度的改造,建立了一种完全现代意义上的国家体制。

法国革命是横向地把社会切割开,因此如果王权和贵族这个阵营胜利,那么原有的社会结构会被保留,革命等于没有发生。可是如果第三等级胜利了,那么整个社会就都被颠覆了,将出现一个全新的社会。这意味着法国革命是一场社会阶层的殊死搏斗,要么全生,要么全死。而革命的结果恰恰是第三等级胜利了,于是出现一个全新的社会……后来第三等级又分开了,每一个阶层都有它的要求,于是在革命过程中,发生了一次又一次的暴力事件。

——摘编自钱乘旦《西方那一块土》

(1)根据材料一中的示意图,概括伯里克利统治下雅典民主制度的特点。结合所学,写出希腊古典时代的代表性文学和建筑艺术成就各一例。(6分)

(2)根据材料二,从阵营划分依据方面指出英国革命和法国革命的区别。结合所学,对英法等西方国家形成的"完全现代意义上的国家体制"作简要评价,并指出英法两国体制的不同类型。(8分)

25. (12分)[2024·浙江杭州联考] 阅读材料,完成下列要求。

材料 人类文化自起源之初便呈现多样性。各文化之间通过人口迁徙、商业贸易、战争等途径实现了接触、交流、碰撞,在相互学习和相互吸收中形成了文明进步的巨大动力,不断地为各地的文明增添活力。不同文化并不是孤立地、互不联系地各自发展,而是在相互交流、相互对话、相互学习、相互碰撞中携手前行。

——摘编自《文明多样性彰显构建人类命运共同体的文明自信》

自选一个文化交流的途径,运用世界史的相关史实,围绕"文化交流交融"的主题写一则历史短文,题目自拟。(要求:观点明确,史实准确,条理清晰,表述成文。)(12分)